北京市朝阳区九年级综合练习(二)

历史试卷

2018.6

学校_____ 班级_____ 姓名_____ 考号_____

考生须知	1. 本试卷共10页。34道小题。满分90分。考试时间90分钟。 2. 在试卷和答题卡上准确填写学校名称、姓名和学号。 3. 试题答案一律填涂或书写在答题卡上,在试卷上作答无效。 4. 在答题卡上,选择题用2B铅笔作答,其他试题用黑色字迹签字笔作答。 5. 考试结束,将本试卷、答题卡和草稿纸一并交回。

第一部分 选择题(每题1.5分,共45分)

下面每题四个选项中,只有一个正确,请将正确选项填涂在答题卡上。

1. 考古学家在一处洞穴发现了以下遗存。这些遗存反映了

打制的砍砸器


被烤过的兽骨

被烧裂的石头

A. 北京人的生活　　B. 河姆渡居民的生活
C. 半坡居民的生活　　D. 炎帝和黄帝的传说

2. 有学者认为夏商周的时代特征是:早期国家的产生、发展与社会变革。其中"发展"主要表现在
A. 夏朝建立　　B. 西周分封　　C. 王室衰微　　D. 诸侯争霸

3. 与下图所示路线密切相关的历史事件有

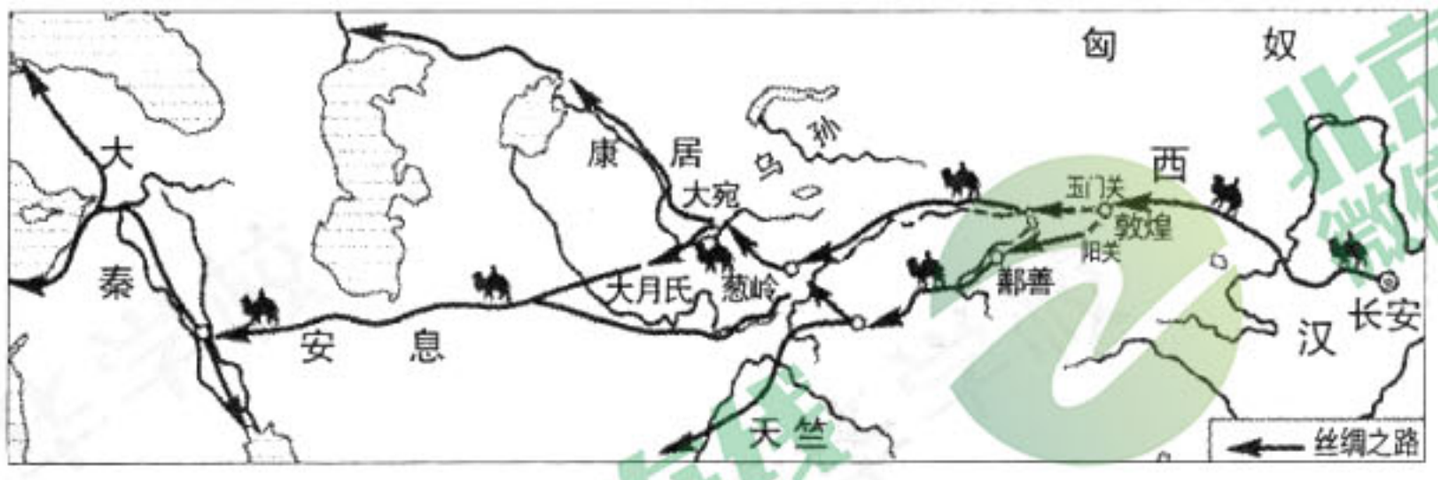

①张骞通西域　　②玄奘西游　　③鉴真东渡　　④郑和下西洋
A. ①②　　B. ③④　　C. ①③　　D. ②④

4. 下表是商鞅变法和北魏孝文帝改革的主要内容,其共同点是

商鞅变法的主要内容	北魏孝文帝改革的主要内容
废除旧田制;奖励耕战;推行县制	把国家控制的荒地分给农民,让他们缴纳租赋;设置乡官;禁胡服、说汉话、改用汉姓

A. 学习汉族文化　　B. 提高军队战斗力
C. 促进民族交融　　D. 改变了土地政策

5. 以下对右侧历史地图解读正确的是，隋朝大运河

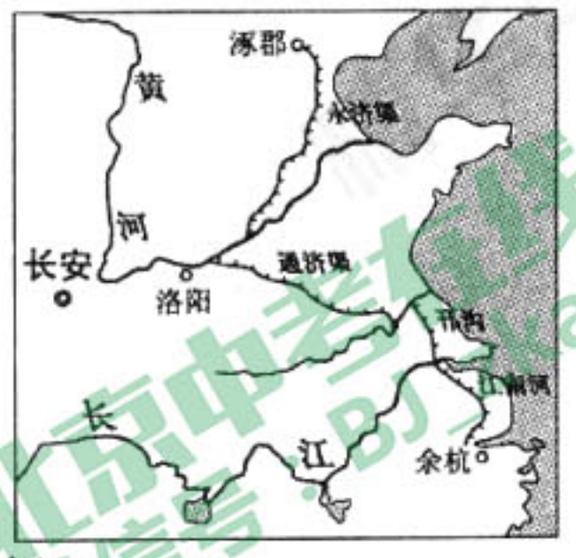

A. 最北河段是通济渠

B. 北达涿郡南至洛阳

C. 以都城长安为中心

D. 连通了长江和黄河

6. 唐太宗认为剥削百姓来侍奉君主，国家就会灭亡。为了不劳民伤财，他放弃了修建乾元殿。唐太宗的言行体现了

A. 朴素的辩证思想　　B. 儒家的仁政思想

C. 法家的法治思想　　D. 墨家的非攻思想

7. 下列史实共同反映的时代特征是

①契丹仿照中原制度进行改革　　②北宋和西夏交往频繁

③宋辽边境设置市场互相贸易　　④许多女真人改用汉姓

A. 文化昌盛　　B. 民族交融　　C. 商业繁荣　　D. 政权并立

8. 以下一组数据可用于研究中国古代史的某一主题。这一主题是

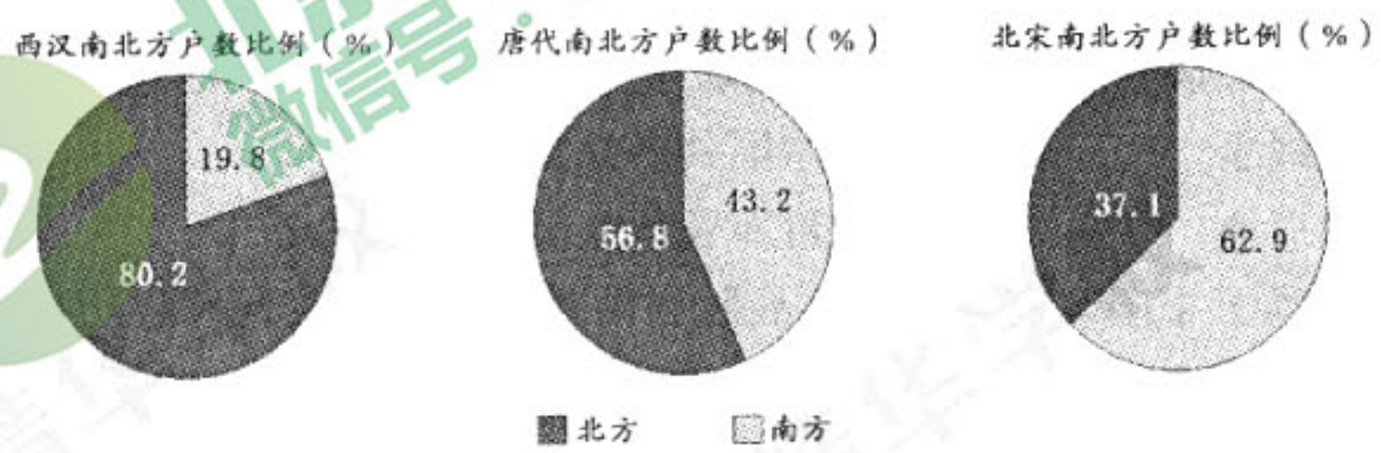

A. 中国古代经济重心南移　　B. 西汉大一统局面的巩固

C. 北方地区的民族大交融　　D. 两宋时期海外贸易发达

9. 一位同学编制《中国古代四大发明》专题图册。以下图片可以入选的是

A. 司母戊鼎

B. 三脚耧车

C. 骆驼载乐俑

D. 罗盘针

10. 明太祖废除丞相、清朝雍正皇帝设立军机处的共同作用是

A. 削弱了宰相权力　　B. 增强了军事力量

C. 加强了君主专制　　D. 放松了地方管理

11. 下表反映的主题是

时间	事件
1690 年	康熙率军在乌兰布通打败噶尔丹
1733 年	雍正时，设乌里雅苏台将军，直接掌管蒙古各部
1759 年	乾隆时，清军在维吾尔族人民的支持下平定大小和卓叛乱

A. 巩固西北边疆　　B. 建设东南海防　　C. 促进中外交往　　D. 加强西藏管理

12. 一位同学分类梳理中国古代历史人物，其中①和②处分别应填写的是

一、	秦始皇 汉武帝 唐太宗 宋太祖	
二、	祖冲之 贾思勰 李时珍	①
三、	白居易 辛弃疾 关汉卿	②

A. 司马迁、张仲景　　B. 宋应星、曹雪芹
C. 唐玄宗、明太祖　　D. 戚继光、郑成功

13. 中英《南京条约》规定开放广州、上海等地为通商口岸；《马关条约》允许日本在通商口岸开设工厂。英国、日本制定这些条款的共同目的是
A. 获得战争赔款　　B. 割占中国领土
C. 打开中国市场　　D. 控制中国海关

14. 右侧漫画反映的主题是
A. 技术进步　　B. 制度变革
C. 思想启蒙　　D. 国家富强

15. 1930年5月，中共中央机关刊物《红旗》明确提出：党应以大部分力量去发展乡村工作，占据广大农村之后，即可以联合起来包围城市，向城市进攻。这一思想的最早实践是
A. 国共合作发动北伐战争　　B. 中国共产党发动南昌起义
C. 建立井冈山革命根据地　　D. 红军长征胜利到达了陕北

16. 抗战胜利后，彭德怀获得了中国政府颁发的抗战胜利勋章。以下颁奖词符合历史事实的是
A. 九一八事变后领导东北抗日联军进行艰苦斗争
B. 促成西安事变和平解决，为国共合作做出贡献
C. 在正面战场取得了台儿庄大捷，扬我军威国威
D. 指挥八路军取得了百团大战的胜利，居功至伟

17. 下面解放战争的示意图中，③处应填写

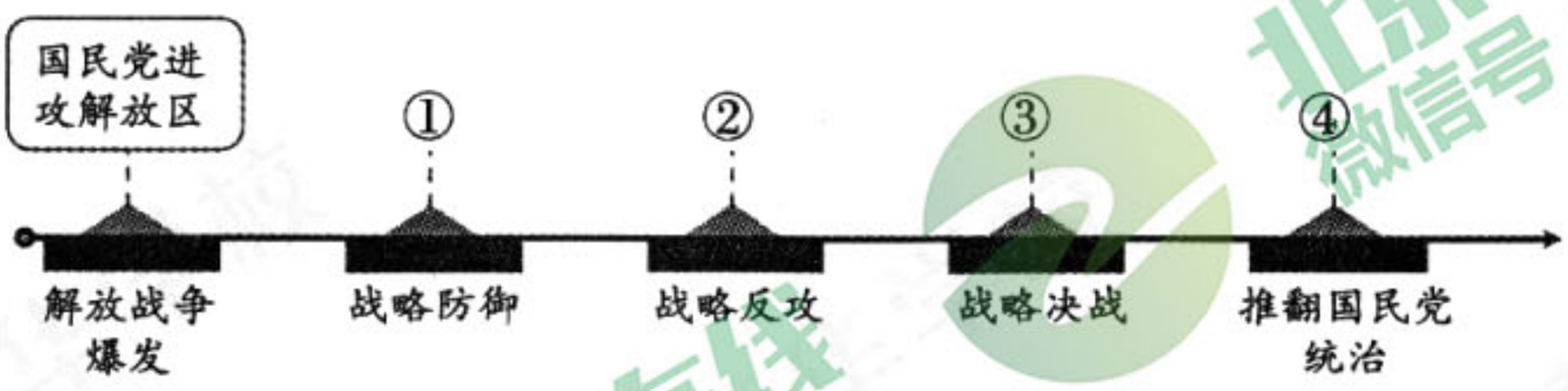

A. 转战陕北　　B. 挺进大别山　　C. 三大战役　　D. 渡江战役

18. 王进喜、雷锋、焦裕禄、邓稼先等人都是
A. 革命战争时期的英雄　　B. 社会主义建设的楷模
C. 改革开放的时代先锋　　D. 国防科技的领军人物

19. “全党同志要解放思想，实事求是，坚持一切工作从实际出发……党和国家的工作重心转移到经济建设上来。”做出这一决议的会议是
A. 中共“七大”　　B. 第一届全国人民大表大会
C. 中国共产党十一届三中全会　　D. 中共“十四大”

北京中考在线 微信号：BJ_zkao

20. 右图中的罗塞塔石碑，出土于尼罗河三角洲，碑文记载了法老的诏令等内容。它可用于研究

A. 古埃及文明　　B. 古巴比伦文明

C. 古印度文明　　D. 古罗马文明

21. 日本大化改新的内容有：在中央设立二官八省，地方设国、郡、里；明治维新的内容有：废藩置县。据此可知，两次改革的共同之处是

A. 学习隋唐制度　　B. 发展资本主义

C. 加强中央集权　　D. 引进西方技术

22. “资本主义经济的萌芽和一定的发展，新兴市民阶级地位的提高，以及城市化的生活方式，孕育出佛罗伦萨人崭新的世界观和人生观。”材料中的“世界观和人生观”主要体现为

A. 君权神授　　B. 顺应自然　　C. 效忠封君　　D. 人文主义

23. 右侧示意图所反映的史实产生的影响是

①中世纪西欧城市的重新兴起

②扩展人们对世界地理的认识

③促进了欧洲资本主义的发展

④非洲丧失了大量精壮劳动力

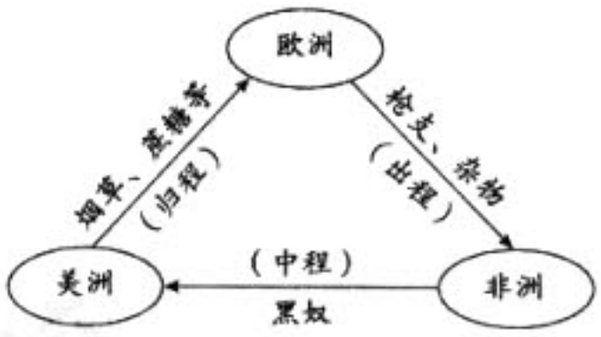

A. ①②　　B. ③④　　C. ②③　　D. ①④

24. 下表是某国议会颁布的法律。这个国家是

时间	法律名称	主要内容
1689 年	《兵变法》	国王若征召一支常备军，只可以维持半年左右时间，否则议会不予拨款
1701 年	《王位继承法》	规定了日后王位继承的顺序，保证王位不会再回到詹姆士二世的男系后代手上

A. 英国　　B. 美国　　C. 法国　　D. 俄国

25. 以下示意图反映的是马克思主义从理论到现实的发展历程，其中①处应填

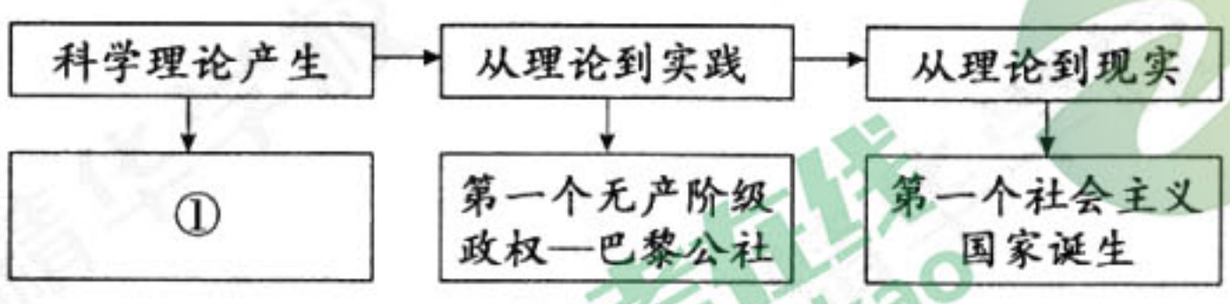

A.《独立宣言》发表　　B.《人权宣言》发表

C. 宪章运动的开展　　D.《共产党宣言》发表

26. 一位科学家的理论可以解释以下现象：由于变异现象普遍存在，后代中出现颈部长短不同的个体。当低矮位置食物不足时，长颈个体因能吃到更高处的树叶而存活下来，使控制长颈性状的基因得以在生存竞争中保留。经过漫长的岁月，逐渐形成我们今天看到的长颈鹿。这位科学家是

A. 牛顿　　B. 达尔文　　C. 爱迪生　　D. 爱因斯坦

27. 美国内战创造出一种新的国家意识，“nation”（民族国家）一词——即一个统一的政治联合体，取代了由分离州组成的“Union”（联邦），而不断为人们频繁的使用。这反映出美国内战

A. 促进了经济发展　　B. 解放了黑人奴隶

C. 改变了政治制度　　D. 维护了国家统一

28. 以下有关苏联的史实排序正确的是

①十月革命　②斯大林模式的确立　③打败德国法西斯　④戈尔巴乔夫改革

A. ①②③④　　B. ②③④①

C. ③④①②　　D. ④①②③

29. 1933 年 6 月，美国国会通过《全国工业复兴法》，要求各工业部门制定生产规模、产品价格、工人工资标准及工时数等，如果发现企业有违规行为，总统有权吊销其执照。由此可见，为了应对危机，美国

A. 对经济采取自由放任的政策　　B. 走上了法西斯专制独裁道路

C. 实行了高度集中的计划经济　　D. 加强了对经济的干预和指导

30. 对以下大事年表解读正确的是

时间	1945 年 9 月	1947 年 3 月	1947 年 6 月	1948 年 6 月	1949 年 8 月	1955 年 5 月
事件	第二次世界大战结束	“杜鲁门主义”出台	美国提出“马歇尔计划”	柏林危机	“北约”正式成立	“华约”正式成立

A. 美苏“冷战”对峙局面的形成　　B. 世界格局出现了多极化发展趋势

C. “华约”成立标志“冷战”结束　　D. 第二次世界大战后欧洲走向联合

北京中考在线 微信号：BJ_zkao

第二部分　非选择题(共 45 分)

31. 民主政治是人类永恒的追求。(10 分)

材料一　在古代,阻碍统一天下最大的力量是列国的纷争。所以秦并吞六国以后,不再行分封。郡的设立,本来是军事上控扼之点,六国新灭,遗民未曾心服,自然有在各地方设立郡的必要。当时的郡守,就是一个不世袭的大国之君,有防其专权的必要,所以每郡又都派一个御史去监督他。

——摘编自吕思勉《中国通史》

(1)依据材料一,说出秦统一后设立郡的原因。(1 分)为防止郡守的权力过大,秦朝采取了什么措施?(1 分)

材料二　雅典的公民大会是最高权力机构,18 岁以上男性公民均可参加;五百人会议是公民大会的常设机构和执行机构,从 30 岁以上的公民中抽签产生;雅典为担任公职和参加城邦政治活动的公民发工资和补贴。重要的行政任务由 10 个人组成的委员会来共同负责,即使个别人出错,影响也不大;此外,还有一种防止独裁和危害公共安全的办法,就是公民大会可以通过"陶片放逐法"将最不受欢迎的人物流放到国外十年;雅典还允许公民参加民众法庭,担任陪审员,这能对贵族的行为起到约束作用。

——摘编自马克垚《世界文明史》

(2)依据材料二,说出雅典保障公民权利的措施和防止贵族独裁的措施。

保障公民权利的措施:_____(2 分)

防止贵族独裁的措施:_____(2 分)

材料三　窃闻东西各国之强,皆以立宪法开国会之故……吾国行专制政体,一君与大臣数人共治其国,国安得不弱?立行宪法,大开国会……则中国之治强计日可待也。

——康有为《请定立宪开国会折》

(3)依据材料三,说出康有为的主张。(1 分)

材料四　新中国在民主政治的道路上构建起了政治体系框架。

(4)请将下列我国三项重要的政治制度填到①②③处。(填写字母代号,3 分)

A. 民族区域自治制度

B. 人民代表大会制度

C. 中国共产党领导的多党合作和政治协商制度

32. 2018 年 3 月，习近平提出要“推动经济高质量发展，建设现代化经济体系”。（11 分）

材料一 珍妮机发明后，一个织工生产的棉纱数量相当于此前 200 织工的产量。1770～1840 年，英国工人每天的劳动生产率平均提高 27 倍。

长期以来，英格兰东南部是英国经济的重心，北部贫穷落后，南威尔士几乎无人居住。工业革命开始后，工业生产逐步向英格兰西北部、南威尔士等地扩展，形成了曼彻斯特等新兴工业城市。

英国的城镇人口占全国总人口的比重由 1760 年的 25% 上升到 1851 年的 50% 以上。1760～1814 年，5 万人以上的城市由 2 个增加到 24 个。

——摘编自王觉非《近代英国史》

(1)依据材料一，概括工业革命对英国产生的影响。（2 分）

材料二 2018 年 1 月，《中国工业遗产保护名录（第一批）》正式公布。以下是名录中洋务运动时期的部分工业遗产。

名录	入选理由（节选）
江南机器制造总局	制造中国第一支后膛装药步枪、第一门近代火炮；建造中国第一艘机动兵轮、第一艘万吨轮；19 世纪末期东亚技术最先进、设备最齐全的机器工厂
福州船政	当时东亚规模最大、影响最深、设备最完整的造船基地
唐山铁路	中国第一条标准轨距铁路；使用了中国第一台蒸汽机车；建成了中国最早的火车站
汉阳铁厂	中国第一家大型钢铁煤联合企业，1915 年前的一段时间内，该企业的钢产量约占中国钢铁产量的 100%

(2)依据材料二，将下列企业与其评价正确搭配。（填写序号，4 分）

①江南机器制造总局　②福州船政　③唐山铁路　④汉阳铁厂

（　　）晚清最先进的造船厂

（　　）晚清规模最大、设备最全的兵工厂

（　　）清朝时产量最大的钢铁厂

（　　）中国铁路的发祥地

材料三 1952～1957 年，一批新兴的工业部门，如汽车制造、重型机械等纷纷建立起来，填补了我国重工业的许多空白。重工业在工业总产值中的比重提高了近 10%。1957 年的钢产量比 1952 年增长近 3 倍，发电量比 1952 年增长 164%。

——摘编自张岂之《中国历史·中华人民共和国卷》

(3)依据材料三，概括 1952～1957 年中国经济建设的主要成就。（2 分）说出这一时期取得这些成就的主要原因。（1 分）

材料四 2015 年 3 月《政府工作报告》中首次提出实施“中国制造 2025”，加快从制造大国转向制造强国，这将助力中国保持国际竞争力。

2016 年 9 月落成的 500 米口径球面射电望远镜具有中国自主知识产权，能在未来 10 至 20 年内保持世界一流地位，被誉为“中国天眼”。	2017 年 5 月，中国大型客机 C919 首飞成功，我国成为世界上少数几个能研制大型客机的国家。这是中国由“世界工厂”转变为高科技生产者计划的一部分。	到 2018 年 5 月，中国已经建立 12 个城市和 4 个城市群为“中国制造 2025”试点示范城市(群)。国家在财税金融、土地供应、人才培养等方面予以政策支持。

(4)依据材料四，说明哪些因素正在使我国从制造大国转向制造强国。(2 分)

33. 电影史既是一部艺术史，也是一部政治、经济、文化和社会史。(12 分)

材料一 一些学者认为中国的灯影戏是电影发明的先导。春秋战国时期，一些思想家对光影生成的原理已经有所阐述。例如《墨子》中的某些论断，为灯影戏提供了理论依据。宋代以后，有很多关于灯影戏演出的记载。大约 13 世纪，随着蒙古军队的军事行动，我国灯影戏流传到了波斯、阿拉伯、土耳其等地。

——摘编自程季华《中国电影发展史》

北宋都城平面图

(1)依据材料一，说出春秋战国时期一位在光学方面有重要贡献的思想家。(1 分)从《北宋都城平面图》中找出灯影戏演出的地点。(填写序号，1 分)说出灯影戏是通过哪条路线传播到国外的。(1 分)

材料二 电影发明于 1890 年代，像电话、汽车一样，电影也随工业革命而来。电影产生需要一系列的先决条件。19 世纪，科学家认识到，当一连串略有差异的图像在眼前快速闪过，人们就会看到运动。此后，还出现了一系列的技术，如能够把一系列快速闪过的图像投射到某个平面上。

——摘编自大卫·波德维尔等《世界电影史》

(2)依据材料二，说出与电影产生紧密相关的历史事件。(1 分)概括电影产生的条件。(1 分)

材料三 从1950～1978年，我国仅上映过一部美国影片。而到70年代末，这种情况发生了变化。右图是1978～1993年进口美国电影的情况。

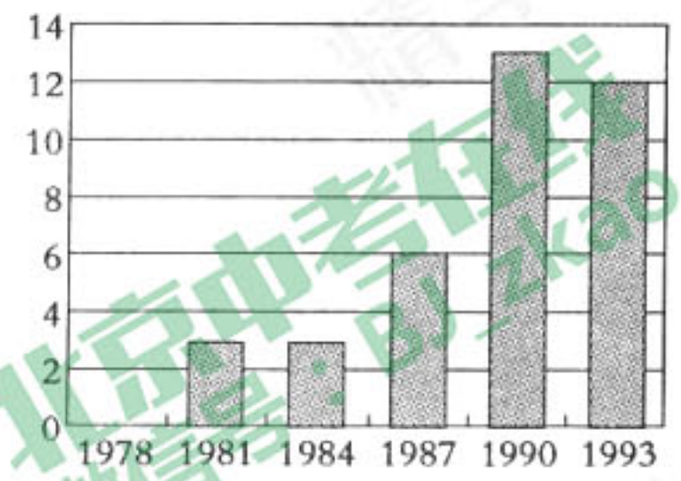

□进口美国电影的数量（部）

(3)依据材料三并结合所学，说出1978年前后，我国进口美国电影的数量发生了什么变化？（1分）分析这一变化的原因。（1分）

材料四 某学校电影社团的同学观看了以下电影。

①建国大业

②建党伟业

③建军大业

(4)按照三部电影反映的相关史实为其排序。（填写序号，1分）

(5)请从下列影片中分别选出与《建国大业》《建党伟业》《建军大业》反映的史实相同的电影。（填写字母代号，3分）

A

B

C

《建国大业》——(　　)；《建党伟业》——(　　)；《建军大业》——(　　)

材料五 《功夫熊猫》是一部以中国功夫为主题的美国动画电影，由美国导演制作，一些中国演员配音。2008年，在美国、中国、澳大利亚、英国、日本等地上映，获得6.3亿美元的票房。

(6)依据材料五，说出当今世界的发展趋势。（1分）

34. 北京是全国的文化中心，首都文化是这座城市的魂。（12分）

【源远流长的古都文化】

材料一 蓟城自商、周以来就是地域政治中心，战国时更成天下名都。这里是北方的陆路交通枢纽，尤其是永济渠凿通后，从水路与江南相连，可转东南之粟到幽蓟。在地理位置上为中原北方门户，面平陆，负重山，南通江淮，北连朔漠。在一定程度上，可以说谁占有蓟城就意味着谁可以取得天下。

——摘编自李淑兰《北京史稿》

(1)依据材料一，概括蓟城地区后来成为都城的原因。（2分）

材料二 北京是一座有着三千多年悠久历史和灿烂文化的古都。公元前1045年，周武王分封同姓贵族召公于燕，同时封黄帝后裔于蓟。秦灭六国后，蓟城成为一个郡的郡所。隋朝时，今北京地区称涿郡，唐朝称幽州。隋朝大运河的修建，对涿郡地区的经济文化发展起到了促进作用，也进一步加强了蓟城南北交通枢纽的地位。唐代时，幽州不仅是军事重镇，也是当时我国北方的第一都会。金朝时，仿照汴京城在燕京城的基础上扩建新都，北京成为一代王朝的正式首都。元、明、清时期，北京一直是全国的都城。

(2)依据材料二，对以下表述做出判断。与材料相符的划"√"，与材料相违背的划"×"，与材料无关的划"○"。(4分)

①北京有三千多年的建城史。(　　)

②从西周至秦汉，北京地区设郡管辖。(　　)

③隋唐时期，北京地区是军事重镇和交通枢纽。(　　)

④元、明、清时期的北京城市布局规整有序。(　　)

【丰富厚重的红色文化】

材料三 北京承载着几代人关于红色文化的记忆。

卢沟桥和宛平城



天安门广场

徐悲鸿纪念馆

(3)请将材料三中的图片与下列史实建立正确的联系。(填写序号，3分)

①1919年，五四爱国运动爆发。

②创作了许多反映民族精神，鼓舞抗战的画作。

③1937年，中国全民族抗战开始。

卢沟桥和宛平城：_____；天安门广场：_____；徐悲鸿纪念馆：_____。

【独具特色的京味文化】

材料四 北京有很多老规矩。请安，是规矩也是一种礼节。这种礼节在清代的官场普遍实行，辛亥革命后，这种半跪半蹲的请安姿势逐渐消失了，请安变成了一种问候，不用再摆什么姿势了。老规矩还有说话中的敬称，这有很多种，在北京人的生活中，最常用的是：您。老北京人聊天儿，三句话不离"您呐"。据语言学家考证，"您"字作为敬语，最初是在元杂剧中出现的。北京是元杂剧的发祥地，所以"您"还是北京人发明的呢。北京人对长辈、师长、尊敬的人都称"您"，这不只是说话习惯，也是北京的老规矩。因为"您"字，是心上有你，所以这个字，不只带有礼貌、客气、尊敬的意思，还含有几分崇拜。

——摘编自刘一达《北京说话老规矩》等

(4)依据材料四并结合所学，说出"请安"这一老规矩消失的原因。(1分)你如何看待北京的老规矩。(2分)

北京市朝阳区九年级综合练习(二)

历史试卷参考答案

2018.6

第一部分　选择题(共45分)

(共30题,每题1.5分)

题号	1	2	3	4	5	6	7	8	9	10	11	12	13	14	15
答案	A	B	A	D	D	B	B	A	D	C	A	B	C	C	C
题号	16	17	18	19	20	21	22	23	24	25	26	27	28	29	30
答案	D	C	B	C	A	C	D	B	A	D	B	D	A	D	A

第二部分　非选择题(共45分)

31.(共10分)

(1)避免分封造成的列国纷争;防止六国遗民的反叛等。(1分,写出一项即可得分)派御史监督郡守。(1分)

(2)保障公民权利的措施:18岁以上男性公民均可参加公民大会;五百人议事会由抽签产生;为参加政治活动的公民发放工资和补贴。(2分,写出两项即可得分)

防止贵族独裁的措施:重要行政任务由10人委员会共同负责;实行陶片放逐法;公民担任陪审员。(2分,写出两项即可得分)

(3)制定宪法,召开国会。(实行君主立宪)(1分)

(4)B;C;A(3分)

32.(共11分)

(1)提高了劳动生产率;促进了落后地区工业的发展;加快了城市化进程等。(2分,写出两项即可得分)

(2)②;①;④;③(4分)

(3)增加了新的重工业部门;重工业产值快速增长。(2分)"一五"计划优先发展重工业。(1分)

(4)重视自主知识产权;发展高新技术;国家的政策支持等。(2分,写出两项即可得分)

33.（共 12 分）

(1)墨子(1 分)；③(1 分)；丝绸之路。(1 分)

(2)第二次工业革命(1 分)科学的发展；技术的进步。(1 分，写出一项即可得分)

(3)从 1978 年以前只引进了 1 部美国电影到 1978 年以后每年都有几部或十几部。(1 分)中国实行改革开放；中美建交。(1 分，写出一项即可得分)

(4)②→③→①(1 分)

(5)C；A；B(3 分)

(6)经济全球化(1 分)

34.（共 12 分）

(1)蓟城地区是地域政治中心；陆路交通枢纽；地理位置重要。(2 分，写出两项即可得分)

(2)①√；②×；③√；④○(4 分)

(3)③；①；②(3 分)

(4)政治变革(辛亥革命)；平等的观念取代了传统的等级观念；西方礼节的传入；适应现代生活方式等。(1 分，写出一项即可得分)

表明自己的态度并说明理由。(2 分，言之成理即可得分)例如：要保留老规矩中合理的方面，因为北京的老规矩传承着中华优秀传统礼仪文化，在当今社会的人际交往中也需要相互尊重，讲究礼貌。

北京中考在线 微信号：BJ_zkao