2021 北京海淀初三（上）期末

历　　史

2021.1

第一部分选择题(每小题 2 分,共 48 分)

本部分共 24 小题。下列各题的四个选项中,只有一项是符合题意的

1.东胡林遗址位于北京市门头沟区,碳十四测年结果显示距今 11000~9000 年,遗址发现了房址、灰坑、火塘、蕉葬等,出土了陶器、石器、骨器、蚌器以及大量动物遗骸,鉴定出了粟(如右图所示)和黍两种栽培谷物。据此,可以推断当时东胡林居民的生活状况是

东胡林出土的炭化粟粒

A.采集狩猎向农耕定居的过渡　　B.使用旧石器并建立城邦国家

C.制定“夏历”指导农业生产　　D.与“诸夏”长期交往并交融

2.大禹治水的精神数千年来为人们景仰、传承和颂扬。大禹吸取父亲用“堵”的办法治水失败的教训,改用“通大川,决(疏通)壅塞,凿龙门……疏三江五湖,注之东海”(《吕氏春秋·古乐》)),用疏导的办法治理了水患。《吕氏春秋》的记载彰显的大再治水的精神是

A.公而忘私　　B.勇于创新　　C.严于律己　　D.宽以待人

3.《左传·昭公六年》记载“商有乱政,而作《汤刑》”,《竹书纪年》记载商代第 24 代商王祖甲“二十四年,重作汤刑”。殷墟出土的甲骨文中也有“王又作辟”“贞王闻惟辟”,学者注释:“辟,刑”。传世文献和出土文物能证实商朝

A.用刑罚来维持统治秩序　　B.主张实行“礼治”

C.祖甲主张无为而治　　D.郡县制度得到较好运行

4.《史记·商君列传》中记载,商鞅的新法“行之十年,秦民大悦,道不拾遗,山无盗贼,家给人足。民勇于公战,怯于私斗,乡邑大治”。这段叙述表明

A.秦孝公任用商鞅变法的背景　　B.商鞅变法的思想主张

C.商鞅变法的主要内容　　D.变法后秦国社会治理的效果

5.陆游诗中写道:“眼山导江书禹贡,江流欧山山为动。呜呼秦守信豪杰,千年遗迹人犹诵。决江一支溉数州,至今禾黍连云种。”诗中的“秦守”是指

A.管仲　　B.孙武　　C.李冰　　D.李斯

6.《权利法案》第 4 条规定:“凡未经议会准许,借口国王特权,为国王而征税,或供国王使用而征收金钱,超出议会准许之时限或方式者,皆为非法。”该规定

A.巩固了国王的专制　　B.维护了人民的言论自由

C.限制了国王的权力　　D.规定了国王的宗教信仰

7.“他们联合抵制英国商品,袭击英国官员,组织了如波士顿倾茶事件这样的抗议活动…他们还召开了大陆会议,就反抗英国政策之事达成一致。1775 年,局势已经极为紧张,英国军队和殖民地的民兵在波士顿附近的来克星顿爆发了战斗。”这段叙述反映的历史事件是

A.英国“光荣革命　　B.美国独立战争爆发

C.法国大革命爆发　　D.印度民族大起义

8.莱斯利·贝瑟尔主编的《剑桥拉丁美洲史》中指出,1800 年西班牙王室禁止殖民地建立工厂，l801 年又颁布命令称“殖民地工厂与蒸蒸日上的西班牙工业形成对立”,要求殖民地官员们对于殖民地工厂“以他们能够采取的最简便手段予以摧毁,甚至可以考虑……由王室国库接管”。材料能用来说明

A.拉丁美洲独立运动的原因　　B.欧洲开始殖民扩张的背景

C,西班牙开辟新航路的动机　　D.卡德纳斯改革取得的成果

9.1853-1856 年克里木战争中,英、法、土三国联军打败俄军,显露出俄国军事和经济的落后，加剧了俄国国内的社会矛盾。在内外交困的情况下,俄国

A.彼得一世鼓励兴办手工工场　　B.沙皇专制被推翻

C.亚历山大二世废除农奴制度　　D.实行余粮征集制

10.《宅地法》规定:凡年满 21 岁,没有参加过叛乱,而且获得土地是以垦殖为目的的美国公民,只要交纳 10 美元登记费,就可以在美国西部得到一块不超过 10 英亩的土地。登记人连续耕种 5 年后,就可以成为这块土地的主人。这一法令实施的影响包括

①促进了美国西部领土的开发　　②从法律上确认黑人奴隶解放

③有利于北方扭转被动的战局　　④降低农业的产量以稳定价格

A.①②　　B.③④　　C.①③　　D.②④

11.阅读右边的图示(引自王新生《日本简史》)。这一历史现象出现的原因是

A.大化改新　　B.锁国政策　　C.幕府统治　　D.明治维新

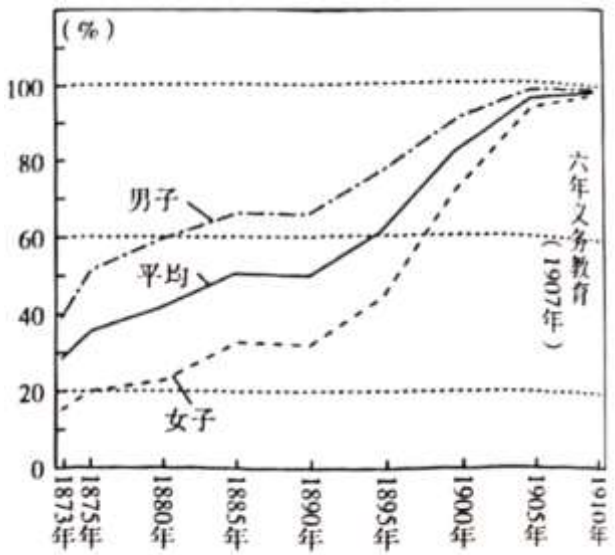

日本小学入学率变化

12.为寻找灯丝的材料,做过数千次试验;为试制新的蓄电池,失败过八千次。这位科学家是

A.爱迪生　　B.爱因斯坦　　C.卡尔·本茨　　D.莱特兄弟

13.读“19 世纪欧洲主要城市人口增长示意图”。图中所示变化的原因是

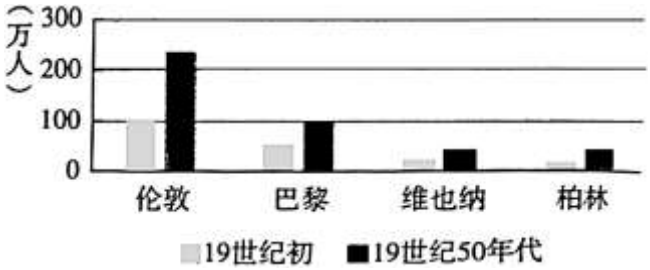

A.文艺复兴运动　　B.新航路的开辟

C.工业革命发展　　D.第一次世界大战

14.李普曼是美国军事情报局在巴黎的宣传干将,专门负责撰写投放到敌方的传单。他在一份为鼓动敌方士兵投降的传单中,以俘虏的口吻写道:“不要为我担心,我已经不打仗了。我吃得很好。美军给战俘的食品定量和给他们自己的士兵一样多:牛肉、白面包、土豆、牛奶、黄油……”据此,可以说明

A.欧洲两大军事集团扩军备战　　B.萨拉热窝事件的背景

C.凡尔登战役异常惨烈　　D.美国已参加协约国一方作战

15.一战期间,英国失去了 14 的对外投资,法国失去了 I/3 的对外投资,德国失去了全部对外投资,伦敦失去了世界金融中心的地位,而美国在战后成为世界上最大的债权国和资本输出国,日本经济也获得了发腰。材料表明第一次世界大战的影响包括

①动摇了欧洲的优势地位　　②彻底瓦解了世界殖民体系

③战后美日国际地位提升　　④各国建立起社会保障制度

A.①③　　B.②④　　C.①②　　D.③④

16.1922 年,华盛顿会议上签订的《九国公约》规定:“尊重中国之主权与独立,及领士与行政之完整…不得因中国状况,乘机营谋特别权利,而减少友邦人民之权利,并不得奖许有害友邦安全之举动。”这些规定对中国的影响是

A.中国成为大战的战胜国　　B.维持了列强共同支配中国局面

C.声援中华民族抗日战争　　D.中国成为联合国的创始会员国

17.右图所示历史事件,对世界历史的影响是

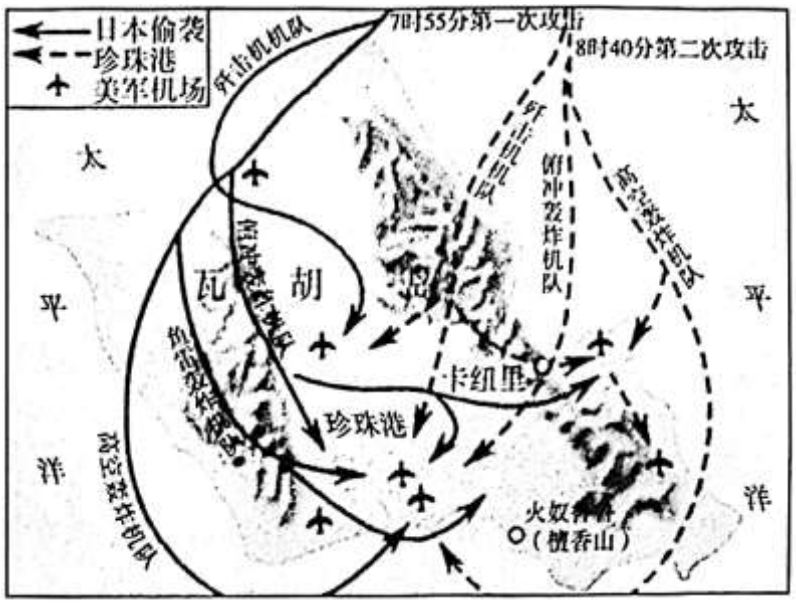

A.揭开世界反法西斯战争的序幕　　B.标志着欧洲战争策源地的形成

C.第二次世界大战规模达到最大　　D.开辟反法西斯的欧洲第二战场

18.某同学在学习第二次世界大战时,以 1942 年 1 月为界把战争进程划分为前后两个历史阶段:各国孤立反抗法西斯侵略、全世界反法西斯国家联合反抗侵略。该同学划分这两个阶段的标志性事件是

A.德国“闪电战”突袭波兰　　B.《联合国家宣言》发表

C.斯大林格勒战役胜利　　D.意大利投降,法西斯同盟瓦解

19.右图漫画是苏联杂志《鳄鱼》公开发表的杜鲁门的形象:用原子弹和美元武装自己,率领着温斯顿·丘吉尔等忠诚的跟随者,谋求世界统治地位。据此,可以推断当时美苏关系的态势是

A.各自独立抗击法西斯侵略　　B.结成联盟共同反对法西斯

C.从战时盟友走向战后对抗　　D.独立国家联合体对抗美国

20.1961 年,民主德国在东、西柏林之间修筑了柏林墙(如右图所示)。柏林墙的修筑,集中反映了当时的国际局势是



A.世界人民反法西斯　　B.美苏处于“冷战”

C.世界经济全球化趋势加强　　D.全球面临恐怖主义的威胁

21.某位同学在整理战后资本主义发展的历史时,绘制了知识结构简图,如右图。其中④处应该填写的是

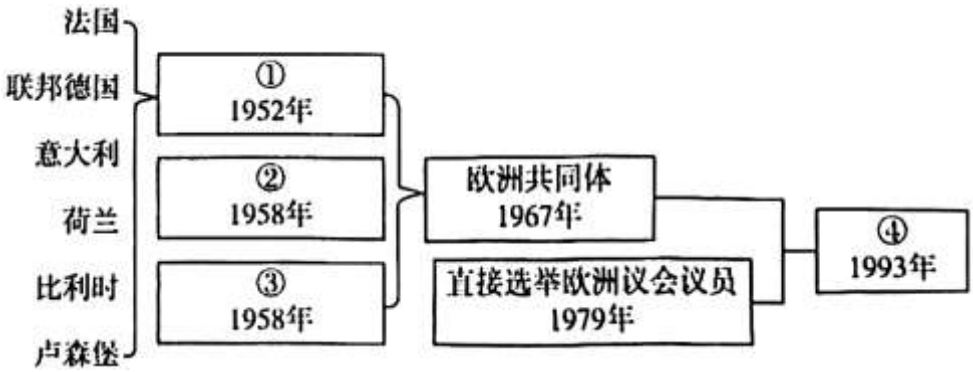

A.欧洲煤钢共同体　　B.欧洲原子能共同体

C.欧洲经济共同体　　D.欧洲联盟

22.20 世纪五六十年代,亚非拉民族解放运动迅速发展,新兴民族独立国家开始联合反帝、反殖、反霸斗争。在下图所示①处发生的事件中,周恩来提出的“求同存异”保证了会议顺利进行,中国提出的和平共处五项原则也得到国际社会的认可。①处应填写的重大事件是

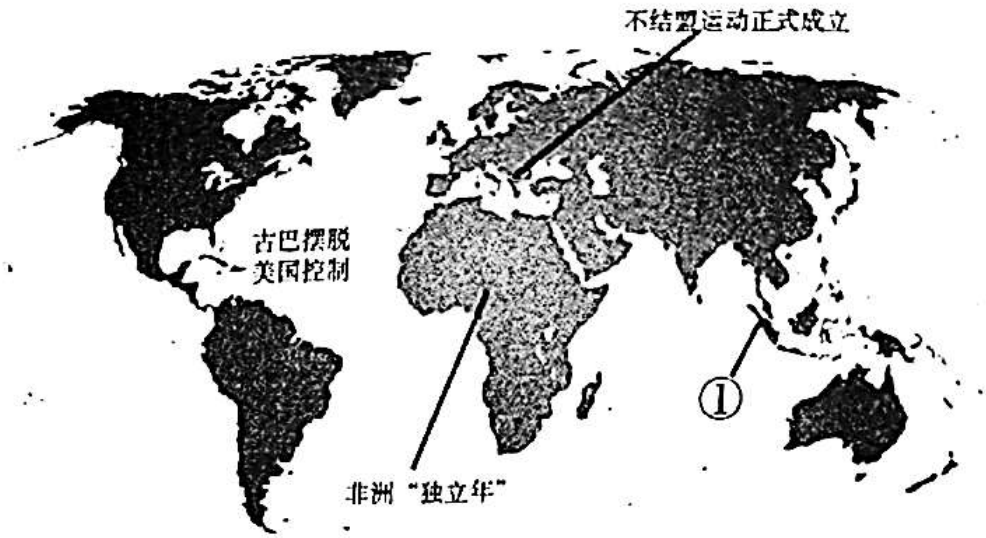

A.埃及华夫脱运动　　B.万隆会议召开

C.巴拿马收回运河区的全部主权　　D.纳米比亚独立

23.马兹鲁伊在《非洲通史》中写道:1962年,在阿尔及利亚的欧洲人外逃,被弃的农场、工厂和地产由阿尔及利亚的农场劳工、工人等接管。自我管理的农业合作社组织形成,经过国有化后取得合法地位。随后,制造业、采矿业和石油部门也进行了国有化。到20世纪60年代末,公营部门的产值占全国总产出的三分之一以上。这反映阿尔及利亚

A.经济发展的非殖民化　　B.完全沦为法国殖民地

C.发展成为工业化国家　　D.粮食问题和饥荒解决

24.当代,成为支撑、协调世界经济和政治的两大支柱,推动世界和平与发展的国际组织是

①国际联盟②北大西洋公约组织③联合国④世界贸易组织

A.①②　　B.②④　　C.①③　　D.③④

第二部分材料分析题(共52分)

25.(12分)考古·文明。经过几代考古人接续奋斗,我国考古工作取得了重大成就,延伸了历史轴线,增强了历史信度,丰富了历史内涵,活化了历史场景。阅读下列材料,回答问题。

【证据确认】2019年,世界遗产大会将良渚古城遗址列入《世界遗产名录》。世界遗产委员会给出的定位为:它是代表史前稻作文明的最高成就,中华五千多年文明史最直接、最典型、最有力的实证,堪称人类早期城市文明的杰出范例。

材料一　良渚古城的城内建筑、城墙、外城以及水利系统的土石方工程量达1005万m^3。其中,良渚古城核心区面积约为6.3km^3,是世界上同时期规模最大的城市系统之一。宫殿区营建在长方形人工土台上,面积约30万m^3,发现了35座长方形房址,多为南北朝向,排列整齐。

发掘的墓葬显示,社会存在着明显的等级分化和职业差刚。以12号基规格最高,出土了600余件(组)玉器,包括体量最大的“玉琮王”和“玉钺王”,标志着墓主人很有可能是一位同时掌握着神权、军权和王权的统治者。

以火耕、水耨技术为代表的原始稻作农业已经相当成熟。水稻的驯化历程基本完咸,出土了大量稻作农业工具,水稻产量也大大增加。在一个大型灰坑遗迹(H11)中,出土约1.3万千克的炭化稻米。

——宋姝等《良渚古城:中华500多年文明史的实证之城》,载《自然与文化遗产研究》2020年第3期

材料二　关于良渚水坝的考古证据非常充足,其中一个最重要的证据是碳十四的测年数据,水坝碳十四测年数据在公元前3100-公元前2700年之间。

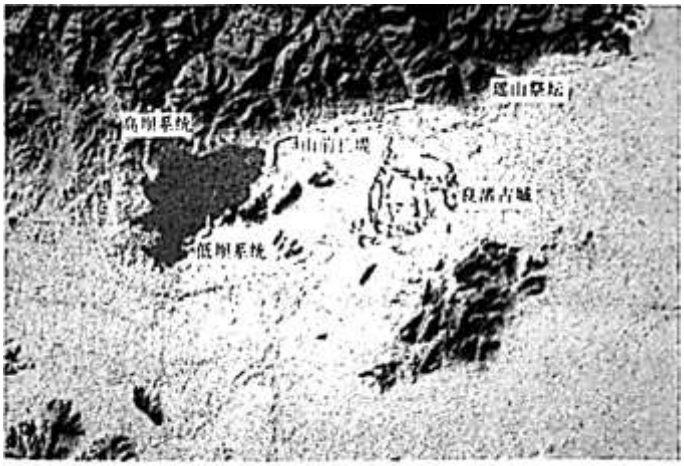

良渚古城遗址及外围水利系统示意图

——英国剑桥大学科林·伦福儒《世界早期复杂社会视野下的良渚古城》

(1)世界遗产委员会对良渚古城遗址给出了定位,依据材料一、二列举相关证据。(3 分)

【铭文述史】“燕侯旨鼎”是在北京出土的西周早期青铜器。

材料三 铭文(如右图):匽(燕)侯旨(zhi,“旨”的异体字)初见事,于宗周,王赏旨贝廿朋,用乍(作)又(有)始(姒)宝尊彝。

意译就是:燕侯旨第一次因事到宗周来朝见,周王赏给旨贝二十挂,用来做有姒的宝器。

——摘编自唐兰《西周青铜器铭文分代史征》



燕侯旨鼎。高 20.4cm，口径 16.9cm，重 1.9kg。日本京都泉屋博古馆藏。

(2)旨是燕国第二代诸侯。铭文记载了燕侯旨的什么活动?(1 分)这反映西周实行了什么政治制度?指出这一制度实行的历史作用。(3 分)

【文史互证】

材料四 入(秦)境……及都邑官府,其百吏肃然,莫不恭俭、敦敬、忠信而不楛(ku,滥恶)……(士大夫)无有私事也,不比周,不朋党(重视处理公事,不结党营私)……

——《荀子·强国篇》

材料五 湖北云梦出土的秦简中,《语书》是秦国南郡行政长官腾于公元前 27 年发布的一道行政命令,写道:“凡良吏明法律令…恶史不明法律令,不知事,不廉洁,无以佐上,偷惰疾事(指推脱事务),易口舌(搬弄是非),不羞辱,轻言而易病人(侮辱别人),无公端之心……

——睡虎地秦墓竹简整理小組编《睡虎地秦墓竹简》

(3)依据材料四、五,概括秦评判官吏优劣的标准。(2 分)结合所学,说明战国时期秦国重视官吏任用的历史影响。(2 分)谈谈你对人才选用的认识。(1 分)

26.(20 分)经济发展·社会生活。阅读下列材料,回答向题。

材料一 春秋战国时期,诸侯国普遍重视发展商业。齐桓公采纳管仲的建议,“使关市几(通“讥”,查问)而不征”,减轻了关税负担,促进商品经济的发展,增强了齐国的实力,为称霸诸侯提供物质条件。

春秋时期,各诸侯国的都城都设有市。都城以外的其他城邑和城乡之间也设有市场。战国时期,“市”的建立更为普遍,东西南北的土特产品,在中原市场上都可以买到。伴随着商品经济的发展,涿、蓟、邯郸、临淄、宛等成为“富冠海内”的城市。一批巨商富比王侯。

——摘编自吴继轩《春秋战国时期的重商政策与商品经济的发展》

(1)依据材料一说出春秋战国时期商品经济发展的表现,结合所学分析其原因。(4 分)

材料二 1493 年,哥伦布第二次远航时首次将甘蔗带到新大陆,不久之后,第一批奴隶也输送到这里。1627 年,美洲的巴巴多斯岛被宣布为英国殖民地,殖民者发现蔗糖可以让人发家致富,纷纷建立甘蔗种植园,蔗糖变得越来越丰富而廉价。甜点成为欧洲多数人的标准饮食,因为糖对穷人更有吸引力,它能取代其他食物而让人填饱肚子。从 1650 年到 1800 年,英国的蔗糖消费增长了近 25 倍。到 1830 年,蔗糖产量在三十年里增长了 23%。

西印度群岛甘蔗种植园中黑人奴隶劳作

——杜全骑《18-19 世纪英国殖民统治对印度棉纺织业发展的影响探究》

材料四 1920 年 9 月,在国大党加尔各答特别会议上,甘地提出不合作议案,还把“自治”列为不合作运动的目标,并号召抵制英貨以及建议大规模推行土布运动。甘地的议案通过了最终的表决。

——林太《印度通史》

(3)依据材料三、四并结合所学,说明 19 世纪印度手工棉纺织业破产的原因。(2 分)简要评价甘地倡导的印度民族民主运动。(2 分)

材料五 20世纪二三十年代美国经济状况数据图表。

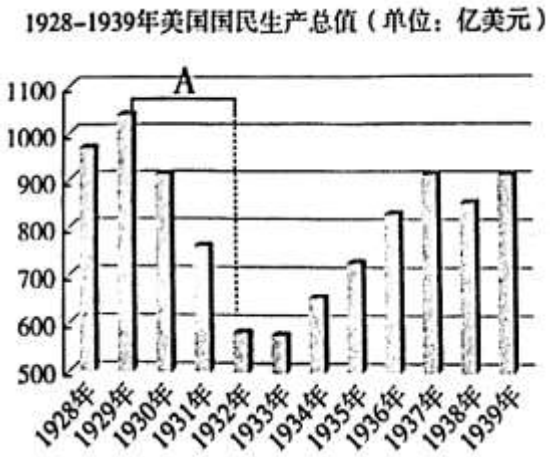

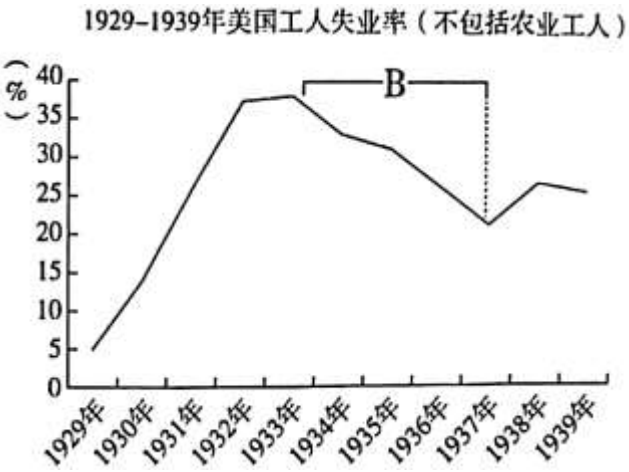

(4)从图中所示A、B两个时段中任选一个时段,指出该时段美国经济领域数据变化的趋势(2分),结合所学,说明这一变化的原因。(2分)

材料六 科学技术创新和信息时代的到来为经济全球化解决了技术问题。从1930年到1990年,空运的成本已从平均每公里68美分降到11美分,纽约与伦敦的三分钟的电话费从244美元降到3美元。信息技术的发展,使大量信息数据在全球范围内快速、经济地传递,使跨国公司的生产和管理不至于失控。此外,随着信息技术的发展,跨国公司的管理者可以在瞬息之间了解世界各地的市场行情,通过数据分析和计算,找到最有效的盈利机会。

——摘编自高德步、王珏《世界经济史》

2007-2018年中国网购用户数及网购使用率增长

(5)依据材料六,概括“信息时代”经济领域新发展的表现。(4分)

27.(9分)革命·建设。阅读下列材料,回答问题。

材料一 《告工人、士兵和农民书》(1917年11月7日)摘录:

临时政府已经被推翻。

苏维埃政权将向各国人民提议立即缔结民主和约,立即在各条战线上停战。苏維埃政权将保证把地主、皇族和寺院的土地无偿地交给农民委员会处置;将使军队彻底民主化,以维护士兵的权利;将规定工人监督生产;將保证按时召开立宪会议;将设法把粮食运往城市,把生活必需品运往农村。

代表大会决定:全部地方政权一律转归当地的工兵农代表苏维埃,各地苏维埃应负责保证真正的革命秩序。

——据《列宁选集》第三卷

(1)依据材料一并结合所学,概括苏维埃政权采取的革命措施。(4分)指出1917年建立起来的苏维埃政权的性质。(1分)

材料二 第二个五年计划期间,有4500个工业企业投产。其中,投资在1亿卢布以上的巨大工程有35个。大机器制造工业大大超过了預定的指标,比1932年的产量增长了2倍,军事工业的实力有极大的增强。黑色冶金工业的增长率达到1263%,黑色金属和拖拉机及农业机器进口大幅度减少。出现了一批冶金、煤矿、机器制造和化工等重工业基地——全新的工业城市。工人阶级的队伍迅速壮大,工人受教育的程度和掌握专业技能的程度也大大提高。城市人口激增。

——摘編自闻一《俄罗斯通史(1917-1991)》

(2)依据材料二并结合所学,概括20世纪30年代苏联社会主义建设的成就并分析其影响。(4分)

28.(11分)战争·和平·国际格局。阅读下列材料,回答问题。

材料一 1870年,法国向普鲁士宣战,法军在色当战役遭到彻底失败,法国皇帝拿破仑三世成为阶下囚。普鲁士军队围困巴黎。1871年,巴黎人民举行起义。同年,普鲁士国王威廉一世加冕为德意志帝国皇帝,德意志帝国成立,德意志民族统一完成。德法签订《法兰克福和约》:国割让阿尔萨斯和洛林;向德国支付战争赎款50亿法郎,三年内付清。意大利也利用法国战败的机会,完成了国家统一。

——摘编自那来顺《德国通史》第四卷《民族国家时代(1815-1918)》

(1)依据材料一并结合所学,指出普法战争(1870-1871年)对欧洲历史发展的影响。(可从对德国、对法国、对欧洲国家关系等方面说明。3分)

材料二 第四十二条 德国在莱茵河之左岸或右岸,于该河以东五十公里所划界线之西不准保存或建筑要塞。

第四十三条 在第四十二条所定之区域内,无论永久或暂时,均不准存留或集合军队,以及举行任何演习与维持动员……

第四十五条 为补偿法国北境煤矿之损毁……德国将……萨尔流域煤矿完全并绝对之所有权免除一切债务或义务,连同独占之开采权让与法国。

——《国际条约集(1917-1923)》

(2)材料二的内容出自一份国际条约,它是__。(从下列①②③中选择并在答题纸上填写对应的序号,1分)

①《凡尔赛条约》;②《开罗宣言》;③《波茨坦公告》。

(3)依据材料并结合所学,说明第一次世界大战后,德国与法国之间领土主权变动的情况。(4分)

材料三 (1945年2月11日《雅尔塔会议公报》中指出)根据已商得同意的计划,三国部队将各自占领德国的一个区域……法兰西如果愿意的话,三国当邀请它承受一个占领区,并参与管制委员会,作为第四委员……

我们决定要把德国一切武装力量解除武装,予以解散……使所有一切战争罪犯受到公正而迅速的膺惩……要扫灭纳粹党,纳粹的法律、组织和制度,从德国人民的公共机关中,从文化生活与经济生活中消除所有一切纳粹的和军国主义的影响。

——摘录自《国际条约集(1945-1947)》

(4)对比材料二和材料三的内容,仿照示例,说明两次世界大战后处理战败的德国时所采取的措施有何不同。(2分)谈谈你对处理纳粹德国措施的认识。(1分)

【示例】政治上:一战后,重新划分德国疆界;二战后,对德国进行分区占领。

2021 北京海淀初三（上）期末历史

参考答案

第一部分 选择题（每小题 2 分，共 48 分）

题号	1	2	3	4	5	6	7	8	9	10	11	12
答案	A	B	A	D	C	C	B	A	C	C	D	A
题号	13	14	15	16	17	18	19	20	21	22	23	24
答案	C	D	A	B	C	B	C	B	D	B	A	D

第二部分 材料分析题（共 52 分）

25.（12 分）（1）[示例]：城市建筑和水利工程规模大，有较强社会组织能力；宫殿区和墓葬反映社会等级差别；稻作工具和稻谷遗存，原始稻作农业相对成熟；科学测年显示距今五千多年。

（2）活动：燕侯朝见了周天子，受到周天子赏赐，铸造了宝鼎。

制度：分封制。

作用：保证了周王朝对地方的控制，稳定统治秩序，扩大统治范围。

（3）标准：明晓法律；个人品德、品性；工作作风、态度等。

影响：国君任命官吏，加强了国君对行政事务的管理；官吏不结党营私，行政效率高，加强社会治理；官吏勤于政事，增强了秦国的实力，为全国统一奠定基础。

[示例]认识：要注意德才兼备；或任人唯贤，爱岗敬业，团队协作；或公道正派、注重实绩；或负责、担当、有作为、有实绩；或勤政务实、清正廉洁等等。

26.（20 分）（1）表现：市场广泛设立；商品种类丰富；商品交换的地域范围广（远距离商品交流）；出现资本雄厚的大商人。

原因：农业和手工业发展为商品经济奠定基础。各国重视商业，减轻关税负担，促进商业发展。

（2）背景：新航路开辟后，美洲建立甘蔗种植园，广泛使用奴隶劳动，推动甘蔗的种植，蔗糖产量提高，蔗糖价格下降，殖民地生产的蔗糖大量输入欧洲。工业革命促进了城市化进程，欧洲人饮食习惯变化，殖民地生产的蔗糖能满足欧洲人的需求。

（3）原因：英国工业革命中棉纺织业迅速发展，英国加紧对印度的殖民侵略，印度沦为英国的商品市场和原料产地，手工棉纺织业破产。（工业革命后，英国加紧在印度倾销商品、掠夺原料，导致印度手工棉纺织业破产）

评价：甘地倡导非暴力不合作运动，提出实现印度民族自治，复兴手工棉纺织业，抵制英国商品，打击了英国殖民统治，增强了民族自信心。

（4）A：反映1929—1933年美国国民生产总值迅速下降。

原因：美国资本主义制度的基本矛盾导致经济大危机爆发；股票市场崩溃，银行倒闭，企业破产，生产下降。

B：反映1933-1937年美国工人失业率下降。

原因：通过银行法、国家工业复兴法，恢复生产、稳定市场；兴建公共工程，以工代赈。

（5）交通和通讯的成本大幅度降低；信息技术促进了经济全球化进程；信息技术提高了生产组织和管理的效率；信息技术促进消费形式发生变化。

27.（9 分）（1）措施： 政治上，推翻资产阶级临时政府统治，全部政权转归工兵农代表苏维埃；退出帝国主义战争，满足人民对和平的愿望。

经济上，将工业、铁路和银行收归国有，建立社会主义公有制；废除土地私有制，交给农民耕种。

性质：世界历史上第一个无产阶级专政的国家（社会主义国家）。

（2）工业生产迅速发展，苏联由落后的农业国变成先进的工业国。工业城市、工人数量和城市人口迅速增加，使苏联社会生活和阶级结构发生根本性变化。增强了苏联重工业和军事工业实力，为苏联军民夺取反法西斯战争胜利奠定了基础。

28.（11 分）（1）影响：德国完成了统一；通过签订条约，德国割占法国土地和夺取赔款，促进了资本主义发展；激化法国与德国的矛盾。法国战败，社会矛盾激化，巴黎人民举行武装起义，成立巴黎公社。意大利乘机完成统一。德国资本主义迅速发展，英德间矛盾不断激化。

（2）①。

（3）阿尔萨斯-洛林归还法国；萨尔煤矿归法国开采。

（4）[示例] 军事上：一战后，限制德国军备；二战后，解除德国武装，审判战犯，根除德国军国主 义和战争

的条件。

[示例]认识：彻底根除德国纳粹主义对社会政治生活的影响，审判战争罪犯，确保德国不能再扰乱世界和平。

北京中考在线 微信号：BJ_zkao